

diga möbel
«I d'diga muesch higa!»
Der Gutschein ist gültig auf den Katalogpreisen des regulären Sofa- und Relaxer-Sortiments. **www.diga.ch**
Zu gewinnen sind zwei Gutscheine von diga Möbel im Wert von je 500 Franken.

Lösung aus Nummer 26/2022
Fantasiegebilde

So können Sie an der Verlosung teilnehmen, Teilnahmeschluss ist der 16. Januar:
Per Telefon: 0901 908 196 (1 Franken/Anruf ab Festnetz). Nennen Sie das Lösungswort und geben Sie Ihre vollständige Adresse an.
Per SMS: Senden Sie eine SMS mit BEO, gefolgt vom Lösungswort, an die 797 (1 Franken/SMS).
Via Internet: www.beobachter.ch/kreuzwortraetsel

Mit der Teilnahme erklären Sie sich mit den AGB und Datenschutzbestimmungen auf www.beobachter.ch/datenschutz einverstanden.
Die Gewinner werden ausgelost und schriftlich benachrichtigt und sind ab 20. Januar unter **www.beobachter.ch/gewinner** ersichtlich.

		7	5				3	4
		5	9					
		3			8		6	5
2					1			
4	5			8			9	7
			3					2
3	9		4			6		
					9	4		
8	1				3	2		

Schwierigkeitsgrad: schwierig

Finden Sie die vorgegebene Anzahl Schiffe. Es gilt:
- Die Zahl am Ende jeder Zeile oder Spalte sagt Ihnen, wie viele Felder durch Schiffe besetzt sind.
- Schiffe dürfen sich nicht berühren, weder horizontal noch vertikal noch diagonal. Das heisst, jedes Schiff ist vollständig von Wasser umgeben.
- Tipp: Markieren Sie 0-Zeilen und 0-Spalten als Wasser. Zeichnen Sie um die Schiffe herum das Wasser ein. Streichen Sie gefundene Schiffe ab.

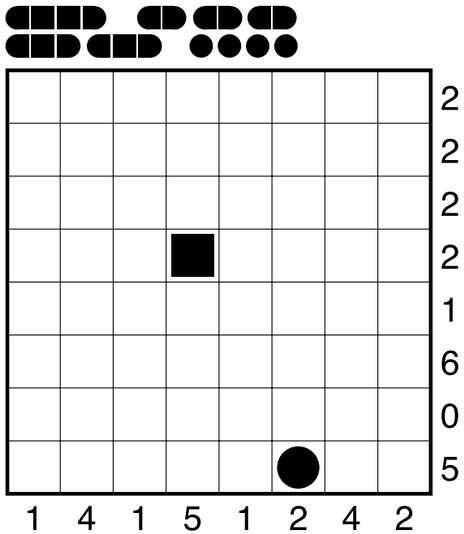

6	2	1	5	3	8	4	9	7
5	7	8	2	4	9	3	6	1
4	9	3	7	6	1	8	2	5
9	4	5	6	8	7	1	3	2
3	8	7	1	5	2	9	4	6
1	6	2	4	9	3	7	5	8
8	5	6	9	1	4	2	7	3
2	1	4	3	7	5	6	8	9
7	3	9	8	2	6	5	1	4

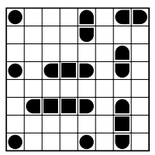

Auflösungen aus Heft Nr. 26

FITNESS FÜRS GEHIRN

A: Die Summe aus zwei nebeneinanderliegenden Kästchen ergibt die Zahl im Kästchen darüber. Füllen Sie die leeren Felder mit den entsprechenden Ziffern aus.

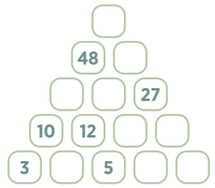

B: In der Schule haben Sie gelernt, wie ein Oval gezeichnet wird. Mit dem Zirkel werden zwei nebeneinanderliegende, gleich grosse Kreise geschlagen. Zwei Verbindungsbögen vollenden das Oval, wobei die Zirkelspitze in die Schnittpunkte der Kreisbögen gesetzt wird.
Ein Zeichner spannte dieser Tage einen Bogen Zeichenpapier wie üblich mit vier Reisszwecken auf sein Reissbrett, wollte ein schönes Oval nach allen Regeln der Kunst zeichnen und stellte bedauernd fest, dass er sein gesamtes Reisszeug zu Hause hatte liegenlassen.
Passende Flaschen in der richtigen Kreisgrösse waren im Büro nicht vorhanden; auch eine Fadenspule wies nicht den richtigen Durchmesser auf. Aber – sie brachte ihn auf eine Idee; er dachte nach und zeichnete sein Oval kunstgerecht in richtiger Grösse auch ohne Zirkel. Wie kam das Oval zustande?

C: Aus welchen Teilen kann man die türkisfarbene Figur legen? Welches Teil wird dazu nicht gebraucht?

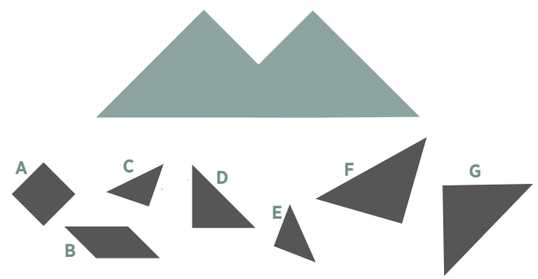

Mehr Denksport in: «Der Schlüssel zum Gehirn – nutze dein Potenzial»; Beobachter-Edition, Telefon 058 510 73 08, www.beobachter.ch/buchshop

Auflösung aus Heft Nr. 26

A: VII + I = VIII

B: 15 · 3 – 8 + 13 : 5 = 10
38 – 16 : 11 + 45 · 3 = 141
111 : 3 + 33 : 7 · 10 + 11 = 111

C: Aufnahmeleiter