

So können Sie an der Verlosung teilnehmen, Teilnahmeschluss ist der 10. April:
Per Telefon: 0901 908 196 (1 Franken/Anruf ab Festnetz). Nennen Sie das Lösungswort und geben Sie Ihre vollständige Adresse an.
Per SMS: Senden Sie eine SMS mit BEO, gefolgt vom Lösungswort, an die 797 (1 Franken/SMS).
Via Internet: www.beobachter.ch/kreuzwortraetsel

Mit der Teilnahme erklären Sie sich mit den AGB und Datenschutzbestimmungen auf www.beobachter.ch/datenschutz einverstanden.
Die Gewinner werden ausgelost und schriftlich benachrichtigt und sind ab 14. April unter www.beobachter.ch/gewinner ersichtlich.

3		4			6	2		
5			1	3				
	6	7		4				
	8	2					4	
	3			7			9	
	7					5	1	
				6		1	8	
				9	5			6
		3	8			9		4

Schwierigkeitsgrad: schwierig

Finden Sie die vorgegebene Anzahl Schiffe. Es gilt:
- Die Zahl am Ende jeder Zeile oder Spalte sagt Ihnen, wie viele Felder durch Schiffe besetzt sind.
- Schiffe dürfen sich nicht berühren, weder horizontal noch vertikal noch diagonal. Das heisst, jedes Schiff ist vollständig von Wasser umgeben.
- Tipp: Markieren Sie 0-Zeilen und 0-Spalten als Wasser. Zeichnen Sie um die Schiffe herum das Wasser ein. Streichen Sie gefundene Schiffe ab.

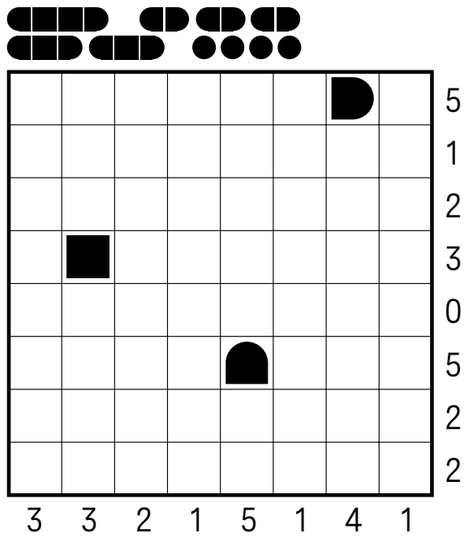

7	5	8	4	1	3	6	2	9
4	9	6	5	8	2	7	3	1
3	2	1	6	7	9	5	8	4
1	6	9	3	5	8	2	4	7
5	8	4	2	9	7	3	1	6
2	3	7	1	6	4	8	9	5
6	4	2	9	3	5	1	7	8
9	7	5	8	2	1	4	6	3
8	1	3	7	4	6	9	5	2

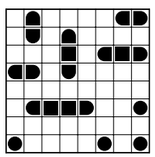

Auflösungen aus Heft Nr. 6

Fitness fürs Gehirn

A: In dieser Darstellung sehen Sie ein mit Streichhölzern gebautes vierteiliges Reihenhaus. Die Grundfläche der einzelnen Häuschen ist sehr klein und soll verdoppelt werden, indem die Anzahl der Häuschen halbiert wird. Versuchen Sie, das durch Umlegen von lediglich zwei Hölzchen zu lösen.

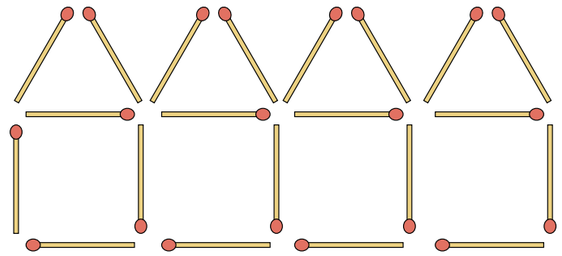

B: Abflugbereit
In der Flughafenhalle stehen drei Flugbegleiterinnen von verschiedenen Airlines nebeneinander an der Bar und trinken noch schnell einen Kaffee. Die Frau ganz rechts trägt eine grüne Uniform. Die Stewardess von WFG ist blau gekleidet. Zoe arbeitet für die Fluggesellschaft «Chicken Wings» und steht direkt neben der in Grau gewandeten Frau. Amanda und die Frau von XFG stehen nebeneinander. Wo steht Beatrice?

	44	41	40	39		37
						36
		49	32	31		
8		10	19			
7					22	
		12		16		
3		1	14			

C: Jede Zahl von 1 bis 49 soll einmal so im Raster stehen, dass sich ein Pfad ergibt, der von 49 bis 1 eine durchgehende Linie ergibt, die sich nirgends kreuzt.

Auflösungen aus Heft Nr. 6

A: 11 Dreiecke bringen die Waage ins Gleichgewicht.
Dreieck hat den Wert 1, Kreis hat den Wert 2, Quadrat hat den Wert 3.

B: Ganoven, Ballast, Ecuador, benoten, hellrot, Drucker

C: Figur c: Das Gebilde dreht sich je Kästchen um 45 Grad.

Mehr Denksport in: «Der Schlüssel zum Gehirn – nutze dein Potenzial»; Beobachter-Edition, Telefon 058 510 73 08
www.beobachter.ch/buchshop