## RÄTSEL

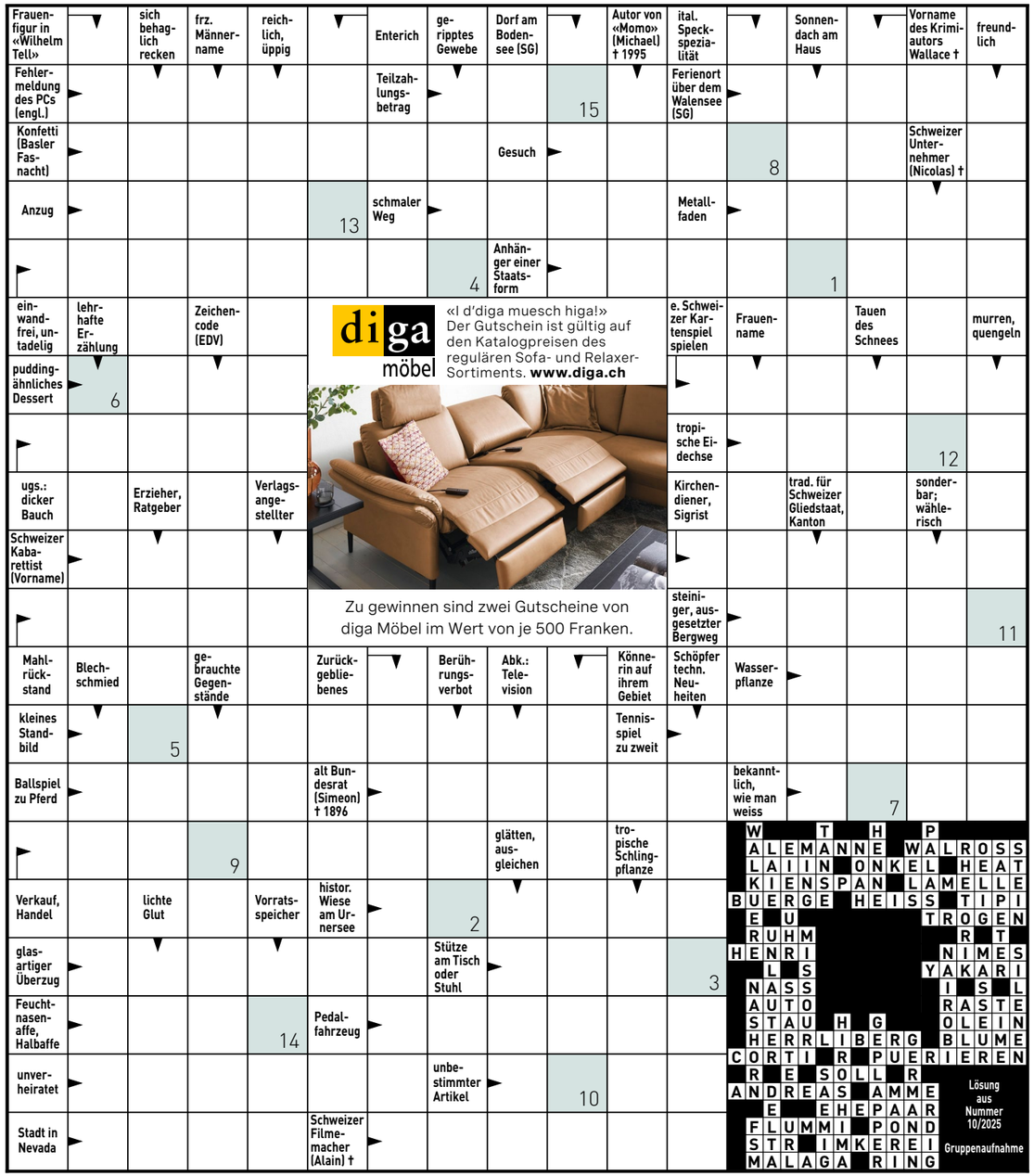


| 1 | 2 | 3 | 4 | 5 | 6 | 7 | 8 | 9 | 10 | 11 | 12 | 13 | 14 | 15 |
|---|---|---|---|---|---|---|---|---|---|---|---|---|---|---|
| | | | | | | | | | | | | | | |

**So können Sie an der Verlosung teilnehmen, Teilnahmeschluss ist der 2. Juni:**
kostenlos unter www.beobachter.ch/kreuzwortraetsel

Mit der Teilnahme erklären Sie sich mit den AGB und Datenschutzbestimmungen auf www.beobachter.ch/datenschutz einverstanden. Die Gewinner werden ausgelost und schriftlich benachrichtigt und sind ab 6. Juni unter www.beobachter.ch/gewinner ersichtlich.

| | | | | | | | | |
|---|---|---|---|---|---|---|---|---|
| | | | 6 | | 3 | | | 4 |
| | | 9 | | | | | 7 | 2 |
| | 8 | 2 | | | 5 | | | |
| | | | 5 | | | | 2 | |
| 5 | | | | 7 | | | | 3 |
| | 1 | | | | 2 | | | |
| | | | 3 | | | 6 | 1 | |
| 1 | 3 | | | | | 8 | | |
| 6 | | | 9 | | 8 | | | |

Schwierigkeitsgrad: schwierig

**Finden Sie die vorgegebene Anzahl Schiffe. Es gilt:**

- Die Zahl am Ende jeder Zeile oder Spalte sagt Ihnen, wie viele Felder durch Schiffe besetzt sind.
- Schiffe dürfen sich nicht berühren, weder horizontal noch vertikal noch diagonal. Das heisst, jedes Schiff ist vollständig von Wasser umgeben.
- Tipp: Markieren Sie 0-Zeilen und 0-Spalten als Wasser. Zeichnen Sie um die Schiffe herum das Wasser ein. Streichen Sie gefundene Schiffe ab.

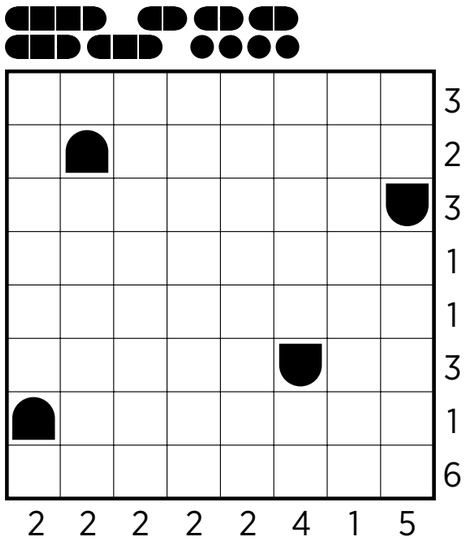


| | | | | | | | | |
|---|---|---|---|---|---|---|---|---|
| 3 | 2 | 6 | 1 | 8 | 4 | 5 | 7 | 9 |
| 8 | 5 | 9 | 2 | 6 | 7 | 3 | 1 | 4 |
| 1 | 7 | 4 | 3 | 9 | 5 | 2 | 6 | 8 |
| 9 | 6 | 5 | 8 | 3 | 2 | 1 | 4 | 7 |
| 4 | 8 | 7 | 9 | 5 | 1 | 6 | 2 | 3 |
| 2 | 3 | 1 | 4 | 7 | 6 | 8 | 9 | 5 |
| 6 | 4 | 3 | 7 | 2 | 8 | 9 | 5 | 1 |
| 7 | 9 | 2 | 5 | 1 | 3 | 4 | 8 | 6 |
| 5 | 1 | 8 | 6 | 4 | 9 | 7 | 3 | 2 |

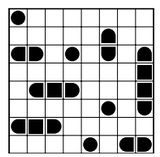

**Auflösungen aus Heft Nr. 10**

## Fitness fürs Gehirn

**A:** Können Sie die Zahlen 1 bis 9 in den Kreisen so anordnen, dass die Summe auf jeder geraden Linie 18 ergibt? Die 1 und die 2 sind als kleine Starthilfe bereits vorgegeben.

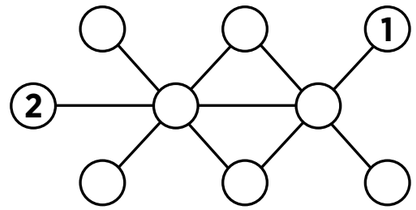


**B:** Gleiche Symbole bedeuten auch gleiche Ziffern. Drei Zahlen haben wir bereits vorgegeben. Versuchen Sie, durch Hinzunahme der Ziffern 0, 1, 2, 3, 4, 5 und 6 die Rechnung sinnvoll zu lösen.




**C:** Die beiden Blöcke müssen gleich hoch und vollständig sein. Wie viele Würfel fehlen jeweils noch?

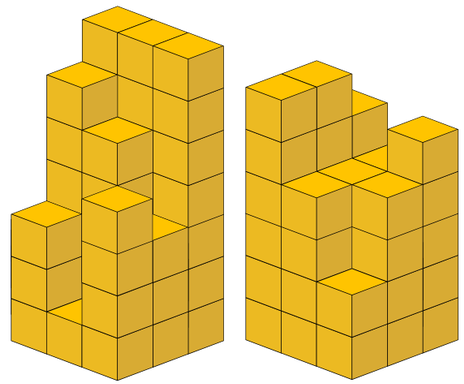

**Auflösung aus Heft Nr. 10**

**A:**
Bank - Raub

**B:**
8: Die Zahlen werden jeweils mit 4 multipliziert, und dann wird 2 hinzuaddiert.

**C:**
Elfenbeinkueste

Mehr Denksport in: «Der Schlüssel zum Gehirn - nutze dein Potenzial»; Beobachter-Edition, Telefon 058 510 73 08
**www.beobachter.ch/buchshop**